Площади

геометрия(с.50)

Основания трапеции равны 4 и 10, а высота равна 5. Найдите площадь этой трапеции.

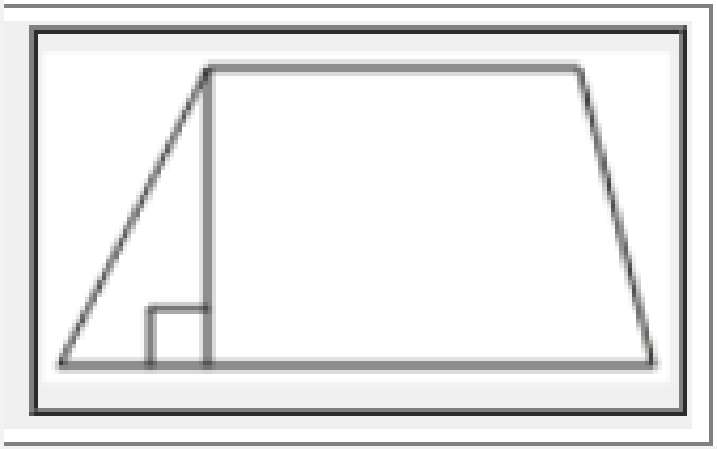

Площади

геометрия(с.52)

Сторона квадрата равна $3\sqrt{2}$. Найдите площадь этого квадрата.



Площади

геометрия(с.53)

Площадь параллелограмма равна 40, а две его стороны равны 5 и 10. Найдите его высоты. В ответе укажите бо ьшую высоту.

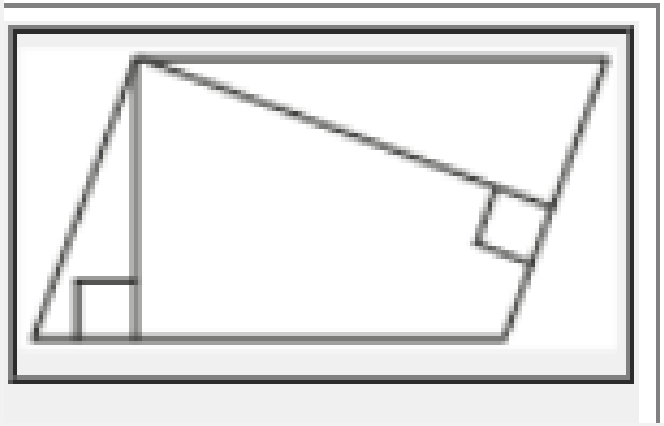

Площади

геометрия(с.58)

Площадь параллелограмма $ABCD$ равна 180. Точка E — середина стороны AB. Найдите площадь трапеции $DAEC$.

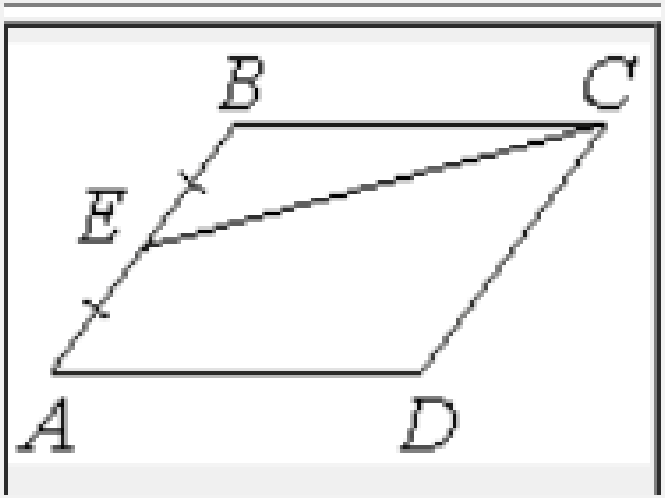

Площади

геометрия(с.95)

Два катета прямоугольного треугольника равны 9 и 6. Найдите площадь этого треугольника.

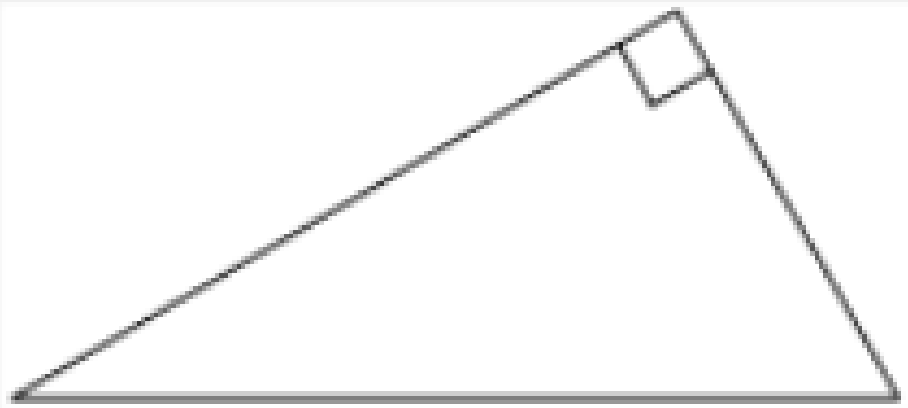

Площади

геометрия(с.95)

Два катета прямоугольного треугольника равны 6 и 7. Найдите площадь этого треугольника.

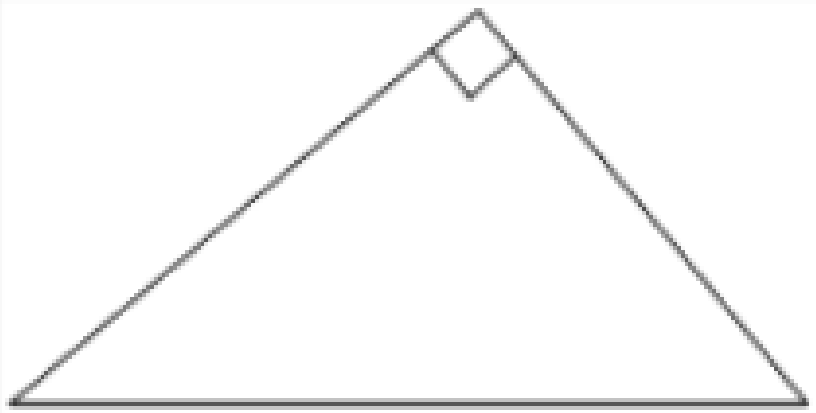

Площади

геометрия(с.95)

Два катета прямоугольного треугольника равны 4 и 11. Найдите площадь этого треугольника.

Площади

геометрия(с.95)

Два катета прямоугольного треугольника равны 14 и 5. Найдите площадь этого треугольника.

Площади

геометрия(с.101)

Сторона треугольника равна 14, а высота, проведённая к этой стороне, равна 31. Найдите площадь этого треугольника.

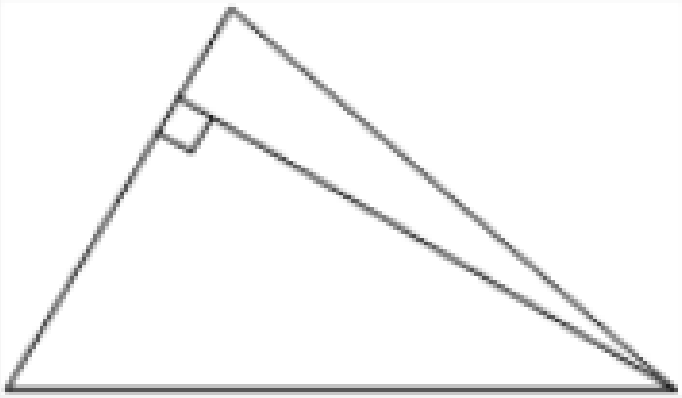

Площади

геометрия(с.111)

Найдите площадь параллелограмма, изображённого на рисунке.



Площади

геометрия(с.111)

Найдите площадь параллелограмма, изображённого на рисунке.

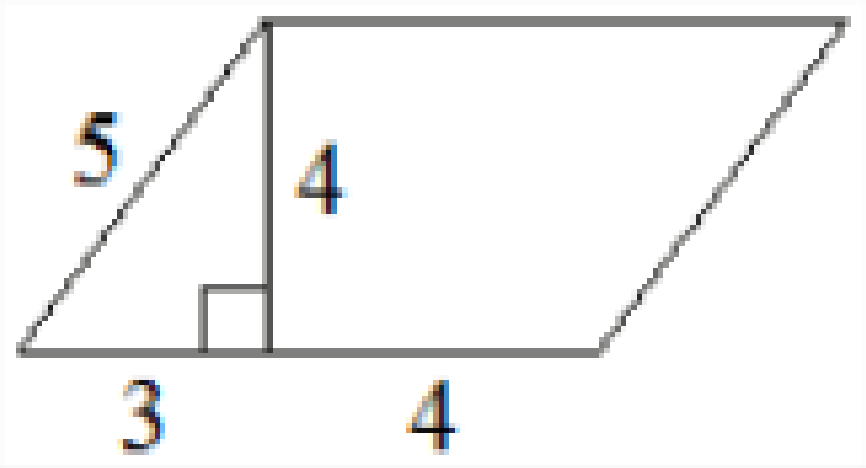

Площади

геометрия(с.111)

Найдите площадь параллелограмма, изображённого на рисунке.

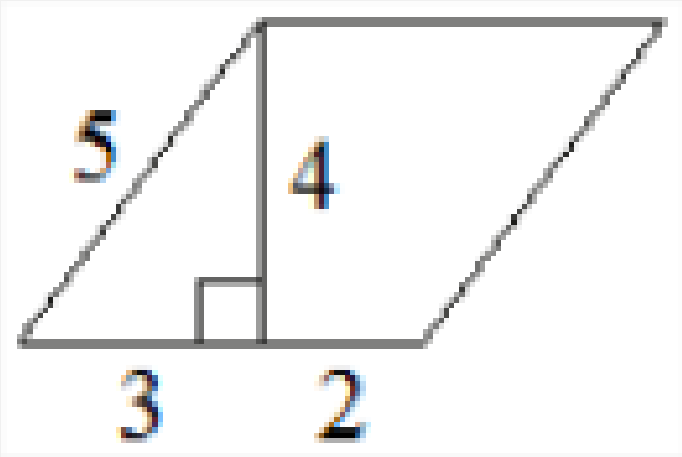

Площади

геометрия(с.111)

Найдите площадь параллелограмма, изображённого на рисунке.



Площади

геометрия(с.112)

Найдите площадь параллелограмма, изображённого на рисунке.

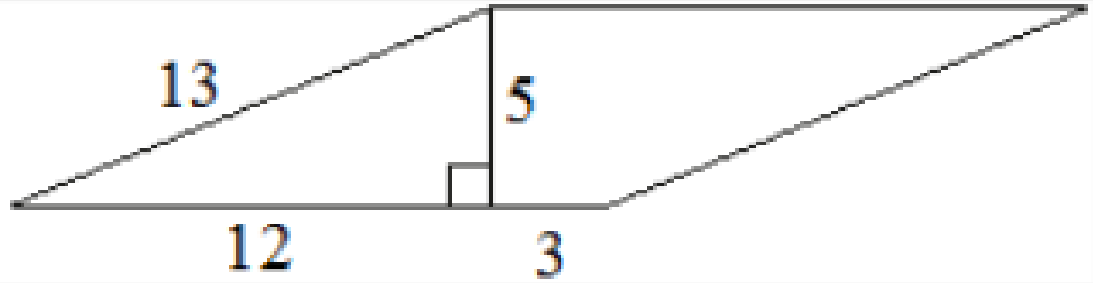

Площади

геометрия(с.112)

Найдите площадь параллелограмма, изображённого на рисунке.

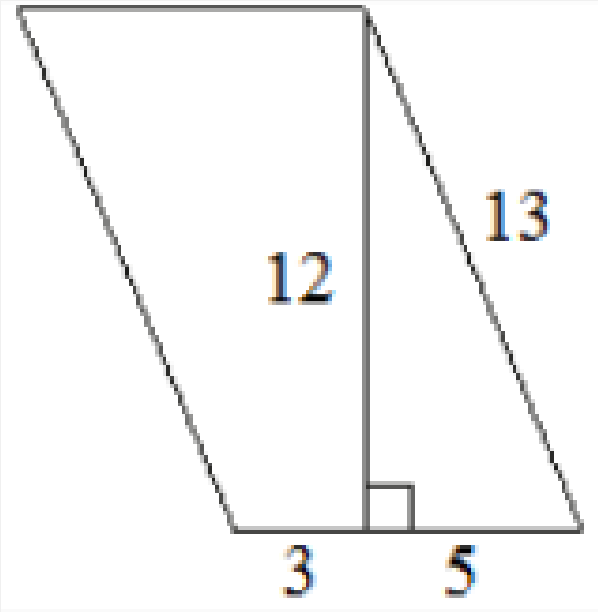

Площади

геометрия(с.113)

Найдите площадь параллелограмма, изображённого на рисунке.

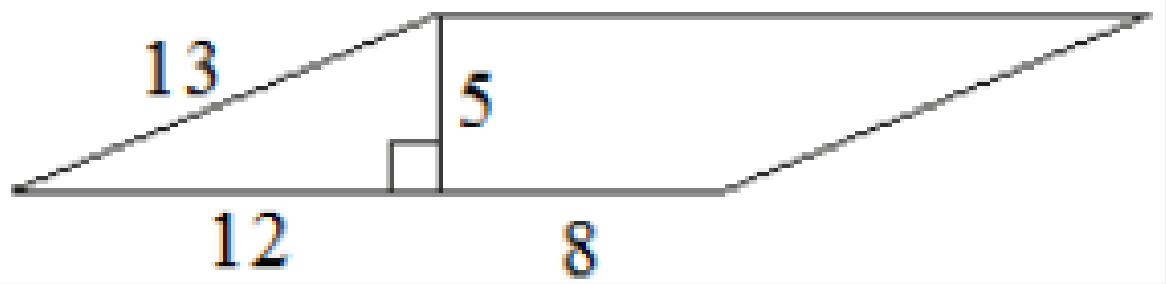

Площади

геометрия(с.113)

Найдите площадь параллелограмма, изображённого на рисунке.

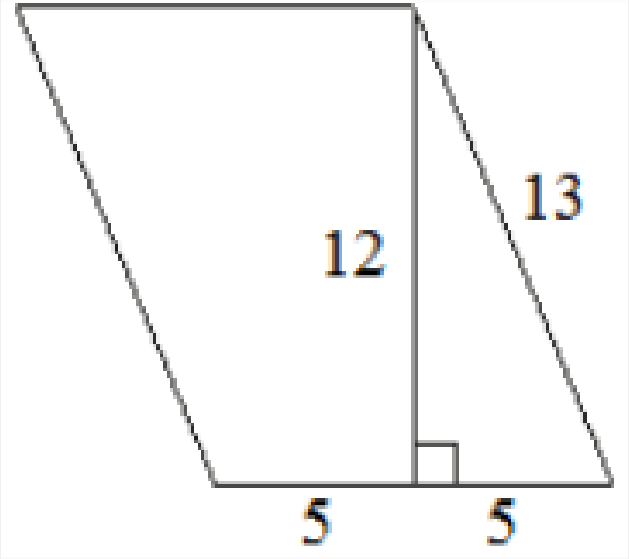

Площади

геометрия(с.129)

Найдите площадь ромба, если его диагонали равны 14 и 6.

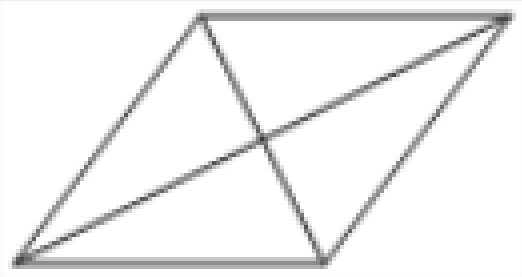

Площади

геометрия(с.129)

Найдите площадь ромба, если его диагонали равны 4 и 6.

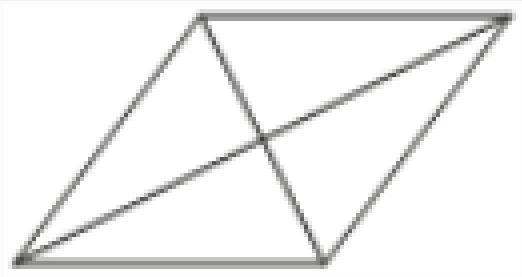

Площади

геометрия(с.129)

Найдите площадь ромба, если его диагонали равны 19 и 6.

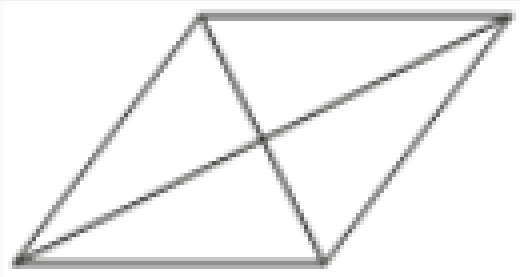

Площади

геометрия(с.129)

Найдите площадь ромба, если его диагонали равны 10 и 6.

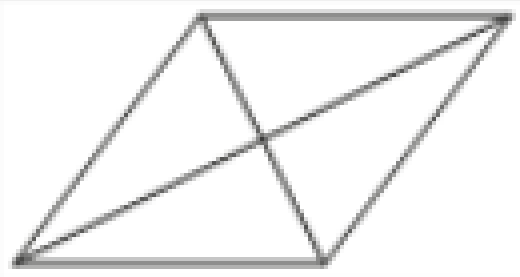

Площади

геометрия(с.129)

Найдите площадь ромба, если его диагонали равны 5 и 6.

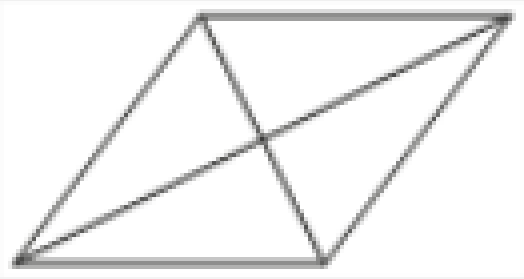

Площади

геометрия(с.129)

Найдите площадь ромба, если его диагонали равны 8 и 6.

Площади

геометрия(с.129)

Найдите площадь ромба, если его диагонали равны 21 и 6.

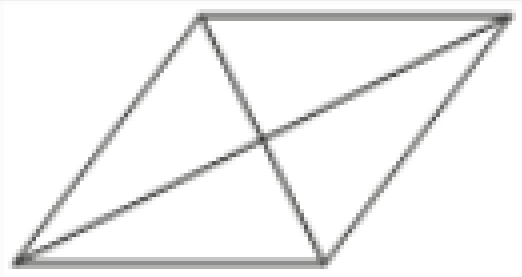

Площади

геометрия(с.130)

Периметр квадрата равен 160. Найдите площадь этого квадрата.



Площади

геометрия(с.130)

Периметр квадрата равен 60. Найдите площадь этого квадрата.



Площади

геометрия(с.130)

Периметр квадрата равен 32. Найдите площадь этого квадрата.



Площади

геометрия(с.130)

Периметр ромба равен 24, а один из углов равен 30°. Найдите площадь этого ромба.

Площади

геометрия(с.138)

Сторона ромба равна 9, а расстояние от точки пересечения диагоналей ромба до неё равно 1. Найдите площадь этого ромба.

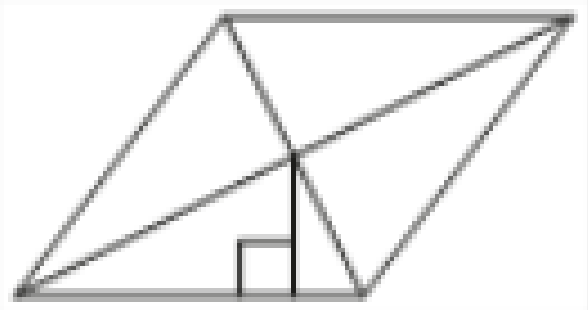

Площади

геометрия(с.138)

Катеты прямоугольного треугольника равны 18 и 24. Найдите высоту, проведённую к гипотенузе.

Площадь треугольника

геометрия(с.16)
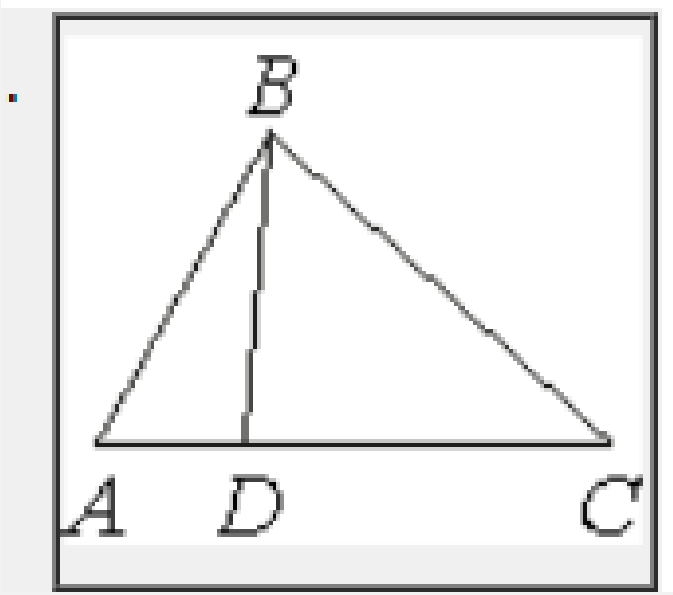
На стороне AC треугольника ABC отмечена точка D так, что $AD = 3$, $DC = 7$. Площадь треугольника ABC равна 20. Найдите площадь треугольника BCD.